PITAGORAS
ACADEMIA

RAZONAMIENTO MATEMATICO

Profesor
Panchito Timana

HABILIDAD LOGICA

SITUACIONES MAXIMAS Y MINIMAS

ACERTIJOS LOGICOS

EJERCICIO N° 01

En una caja hay 9 bolas: 4 blancas y 5 rojas. ¿Cuál es el mínimo número de bolas que se han de sacar para tener la seguridad de haber extraído una de color blanca?

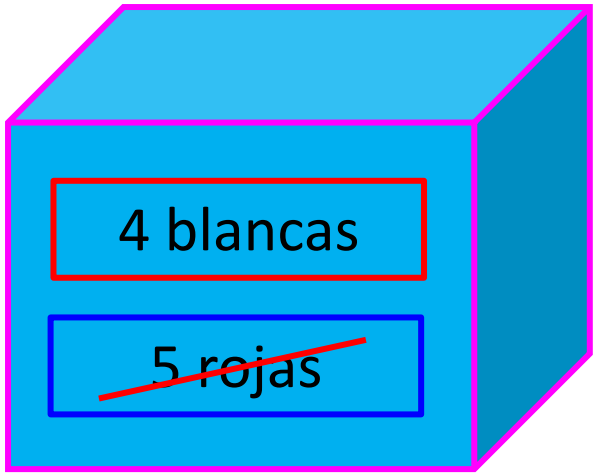

Analizando la cantidad para estar seguro

De tener una blanca



EN EL PEOR DE LOS CASOS LAS 5 BOLAS SON ROJAS

EJERCICIO N° 02

En una caja se tiene caramelos de distintos sabores, 6 de fresa, 8 de limón y 5 de menta. ¿Cuál es la cantidad mínima que se debe extraer para obtener con seguridad uno de sabor limón?

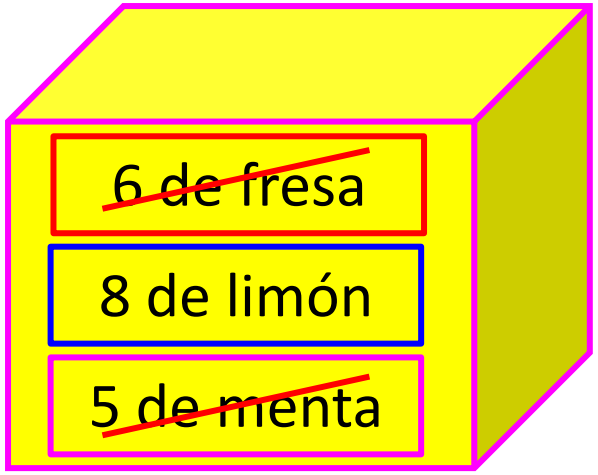

¡¡SE PIENSA EN EL PEOR DE LOS CASOS!!

QUEREMOS TENER

UNO SABOR DE LIMÓN

¡¡PEOR!!

6 de fresa
5 de menta
1 de limón

12

EJERCICIO N° 03

En una caja se tienen 10 bolas numeradas del 1 al 10. ¿Cuántas bolas se deben extraer al azar y como mínimo para tener la certeza de obtener una bola con numeración par?

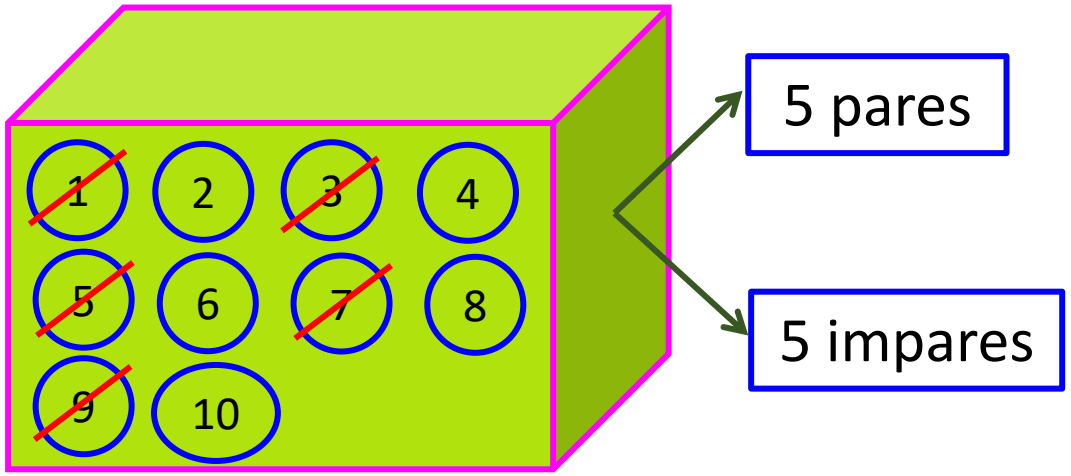

¡¡SE PIENSA EN EL PEOR DE LOS CASOS!!

QUEREMOS TENER

UNA CON NUMERACIÓN PAR

¡¡PEOR!!

5 impares

1 par

6

EJERCICIO N° 04

En una caja se tiene caramelos de distintos sabores, 5 de fresa, 7 de limón y 6 de menta. ¿Cuál es la cantidad mínima que se debe extraer para obtener con seguridad dos caramelos del mismo sabor?

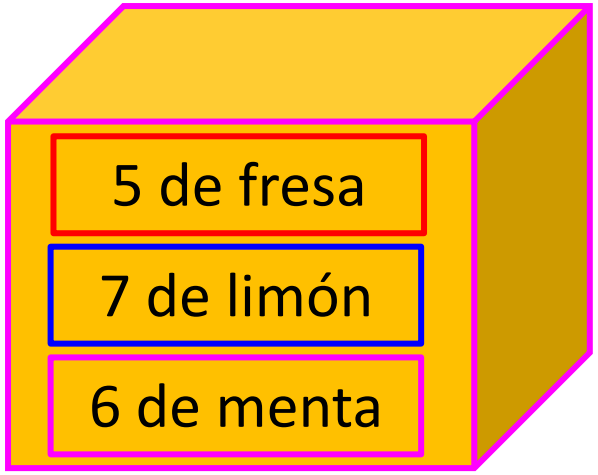

¡¡SE PIENSA EN EL PEOR DE LOS CASOS!!

QUEREMOS TENER

DOS DEL MISMO SABOR

¡¡PEOR!!

1 de fresa
1 de menta
1 de limón
Uno mas

4

EJERCICIO N° 05

En una caja se tiene caramelos de distintos sabores, 9 de fresa, 8 de limón y 7 de menta. ¿Cuál es la cantidad mínima que se debe extraer para obtener con seguridad cuatro del mismo sabor?

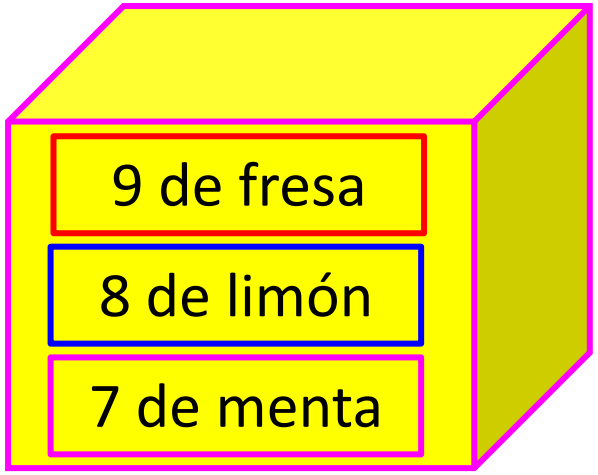

¡¡SE PIENSA EN EL PEOR DE LOS CASOS!!

QUEREMOS TENER

CUATRO DEL MISMO SABOR

¡¡PEOR!!

- 3 de fresa
- 3 de menta
- 3 de limón
- Uno mas

10

EJERCICIO N° 05

Se tiene un mazo de 52 cartas. ¿Cuántas cartas como mínimo deberá extraer al azar, para tener la certeza de extraer 8 corazones y 5 espadas?

52

- ~~13 diamantes~~
- 13 corazones
- 13 espadas
- ~~13 trebol~~

¡¡SE PIENSA EN EL PEOR DE LOS CASOS!!

QUEREMOS TENER

8 corazones y 5 espadas

¡¡PEOR!!

1º CASO		2º CASO
13 diam	+	13 treb
13 esp		13 coraz
8 coraz		5 espad
MAX 47		44

EJERCICIO N° 05

Se tiene un mazo de 52 cartas. ¿Cuántas cartas como mínimo deberá extraer al azar, para tener la certeza de extraer 4 corazones y 9 espadas?

52

- ~~13 diamantes~~
- 13 corazones
- 13 espadas
- ~~13 trebol~~

¡¡SE PIENSA EN EL PEOR DE LOS CASOS!!

QUEREMOS TENER

4 corazones y 9 espadas

¡¡PEOR!!

1º CASO		2º CASO	
13 diam	+	13 treb	
13 esp		13 coraz	
4 coraz		9 espad	
43		48	MAX

EJERCICIO APLICATIVO DE RELACION DE PARENTESCO

EJERCICIO N° 06

Lola y Lita son las dos únicas hijas del señor Bustamante. Ellas son madres de Raquel y Rita, respectivamente. ¿Quién es la única sobrina del padre de la prima de la hija del padre de Rita?

A) Lola B) Raquel C) Lita
D) Rita E) Ana

De los datos graficamos lo siguiente:

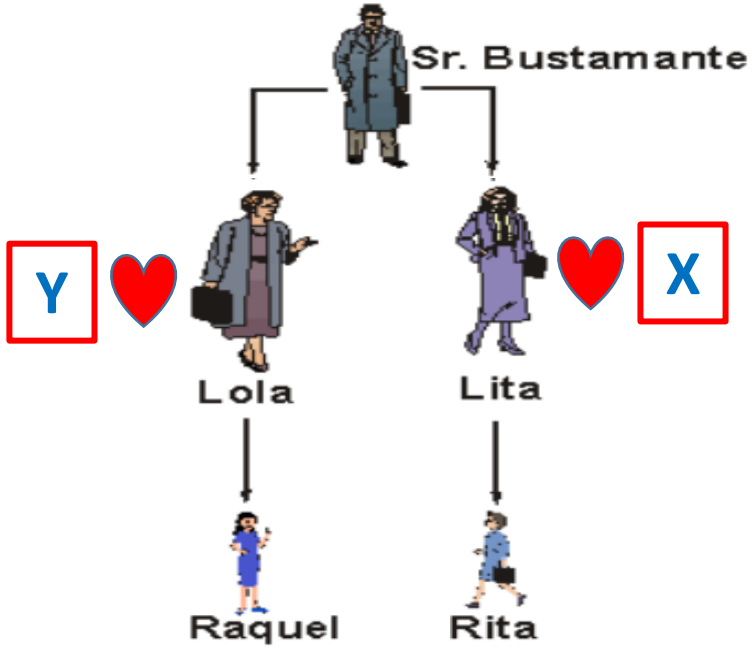

Luego, en lo pedido, reducimos del final hacia el inicio:

Única sobrina del padre de la prima de la hija del padre de Rita.

X

Rita

Raquel

Y

Rita

EJERCICIO N° 07

No es cierto que Bruno no sea nieto de Manuel, el cual es padre de Juan y es falso que Juan sea tío de Bruno. Si la mamá de Bruno se llama Pilar, es cierto que:

A) Pilar es hija de Manuel

B) Juan es nieto de Manuel

C) Pilar y Manuel son esposos

D) Pilar y Juan son esposos

E) Pilar es abuela de Juan

Del dato:

...~~No es cierto~~ que Bruno ~~no~~ sea nieto de Manuel.

Negación Negación

$\Rightarrow$ Bruno es nieto de Manuel.

Además,... es falso que Juan sea tío de Bruno. $\Rightarrow$ Juan no es tío de Bruno.

Luego, con todos los datos graficamos de la siguiente manera:



EJERCICIO N° 08

Si el anteayer de mañana de hace 3 días de pasado mañana fue jueves, ¿qué día de la semana será el subsiguiente día del día que antecede al posterior día de hoy?

A) Miércoles B) Sábado C) Martes
D) Domingo E) Lunes

SOLUCION

$$\underbrace{\underbrace{-2 \quad +1 \quad -3 \quad +2}_{-2}}_{\text{anteayer}} = \text{Jueves}$$

Luego:

Hoy es sábado

Piden:

$$\underbrace{+2 \quad -1 \quad +1}_{+2} \text{ del sábado} = \text{Lunes}$$

EJERCICIO N° 09

Si el ayer del mañana del ayer del anteayer del pasado mañana del mañana del ayer del mañana del ayer del mañana del anteayer de pasado mañana es lunes, ¿qué día será pasado mañana?

A) Domingo B) Lunes C) Martes
D) Miércoles E) Sábado

Al sumar resulta "cero"

-1 +1 -1 -2 +2
El ayer del mañana del ayer del anteayer del pasado mañana
+1 -1 +1 -1 +1 -2
del mañana del ayer del mañana del ayer del mañana del anteayer
de pasado mañana es lunes.
+2

Entonces hoy es lunes, por lo tanto pasado mañana será miércoles.

RAZONAMIENTO MATEMATICO

AÑO NORMAL

	D	L	M	M	J	V	S
1º	1	2	3	4	5	6	7
2º	8	9	10	11	12	13	14
3º	15	16	17	18	19	20	21
4º	22	23	24	25	26	27	28
5º	29	30	31	32	33	34	35
⋮	⋮	⋮	⋮	⋮	⋮	⋮	⋮
51º	351	352	353	354	355	356	357
52º	358	359	360	361	362	363	364
53º	365						

AÑO BISIESTO

	J	V	S	D	L	M	M
1º	1	2	3	4	5	6	7
2º	8	9	10	11	12	13	14
3º	15	16	17	18	19	20	21
4º	22	23	24	25	26	27	28
5º	29	30	31	32	33	34	35
⋮	⋮	⋮	⋮	⋮	⋮	⋮	⋮
51º	351	352	353	354	355	356	357
52º	358	359	360	361	362	363	364
53º	365	366					

OBSERVACIONES

Año normal

- 365 días → $\boxed{365} = \dot{7} + 1$
- Tiene 52 semanas más un día
- Tiene un día de la semana que aparece 53 veces, más que los otros días de la semana que aparecen 52 veces, dicho día es el primero y último del año.

Año bisiesto (29 febrero)

- 366 días → $\boxed{366} = \dot{7} + 2$
- Tiene 52 semanas más dos días
- Tiene dos días de la semana que aparece 53 veces, más que los otros días de la semana que aparecen 52 veces, el primero de dichos días es el primer día del año y el segundo el último día del año.

EJERCICIO **Si el 23 de abril del 2015 es día jueves. ¿Qué día de la semana será el 23 de abril del 2025?**

23 de abril



Numero de días a desplazar = 10 + 3

Numero de años que transcurren

Numero de años bisiestos

$13 = \dot{7} - 1$

jueves-1

jueves

miércoles

23 de abril del 2015

23 de abril del 2025

OBSERVACIONES

$\overline{xyzw} - \overline{mnpq}$ Progresión aritmética

Numero de días a desplazar = Numero de años que transcurren + Numero de años bisiestos

$\boxed{x}$ $\dot{7} + R$ $x + R$

$\overline{ab}$ / $\overline{cd}$ del año $\overline{mnpq}$ — $\overline{ab}$ / $\overline{cd}$ del año $\overline{xyzw}$

Misma fecha diferente año

Como reconocer si un año es bisiesto

Todos los años múltiplos de 4 son bisiestos excepto los años seculares (que terminan en 00), los cuales son bisiestos si es que son múltiplos de 400 (bastará conque las dos primeras cifras sean múltiplos de 4)

año $\overline{abcd}$

- Si $\overline{cd} \neq 00$
  - $\overline{cd} = \dot{4} \longrightarrow$ Año bisiesto (B)
  - $\overline{cd} \neq \dot{4} \longrightarrow$ Año normal (N)
- Si $\overline{cd} = 00$
  - $\overline{ab} = \dot{4} \longrightarrow$ Año bisiesto (B)
  - $\overline{ab} \neq \dot{4} \longrightarrow$ Año normal (N)

1980	1821	1900	2156	2000	1969	1800	1600	1768	2100
B	N	N	B	B	N	N	B	B	N

ENUNCIADO ¿Cuántos años bisiestos hay desde el año 1800 hasta el año 2000?

A) 50 B) 51 C) 52 D) 49 E) 53

SOLUCION

1900 Es un año normal

$$1804;\ 1808;\ 1812;\ \ldots;\ 2000$$

4 4

$$n = \frac{2000 - 1804}{4} + 1 \longrightarrow n = \frac{196}{4} + 1 \longrightarrow n = 49 + 1 \longrightarrow n = 50$$

Recuerda

No todos los años múltiplos de 4 son bisiestos

El número de años bisiestos es: $n = 50 - 1 = 49$

ENUNCIADO

El 28 de julio del 2021, El Peru celebrará 200 años de la proclamación de la independencia. Si el 1 de enero del 2018 fue lunes, ¿qué día se celebrará el bicentenario de la independencia del Perú?

A) lunes B) martes C) jueves D) miercoles E) viernes

SOLUCION

Ene.	Feb.	Mar.	Abr.	May.	Jun.	Jul.
30	28	31	30	31	30	28

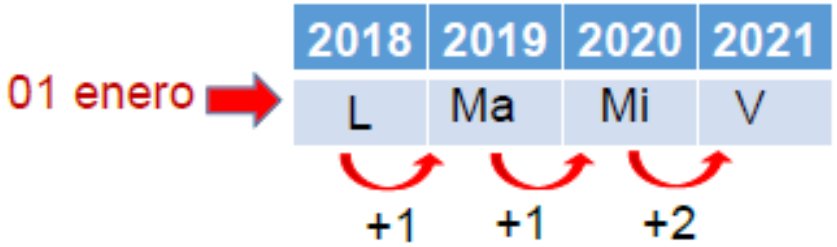

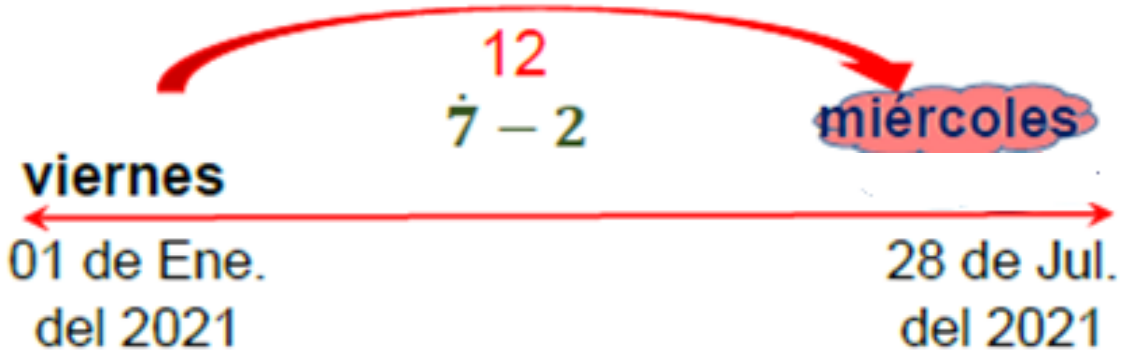

Enunciado

Si el primer día del año 2020 será miércoles y Julio cumple años el 3 de diciembre, ¿qué día de la semana del año 2025 será su cumpleaños?

A) miercoles B) lunes C) domingo D) martes E) viernes

SOLUCION

Dic.	Ene.
28	1

martes $\xrightarrow{29 \quad \dot{7}+1}$ miércoles

3 de Dic. del 2019 ⟷ 01 Ene. 2020

Nº de días a desplazar = Nº de años que transcurren + Nº de años bisiestos

$\underbrace{\text{Nº de años que transcurren}}_{6} + \underbrace{\text{Nº de años bisiestos}}_{2}$

martes $\xrightarrow{8 \quad \dot{7}+1}$ miércoles

03 de Dic. del 2019 ⟷ 03 de Dic. del 2025

Enunciado

Si el 24 de abril del año 2018 es martes, ¿Qué día de la semana será el 24 de abril del año 2050?

A) miercoles B) lunes C) domingo D) martes E) viernes

SOLUCION

$$n = \frac{2048 - 2020}{4} + 1 \longrightarrow n = 8$$

2050-2018

2020; 2024; 2028; ...; 2048

$$\text{Numero de días a desplazar} = \underbrace{\text{Numero de años que transcurren}}_{32} + \underbrace{\text{Numero de años bisiestos}}_{8}$$

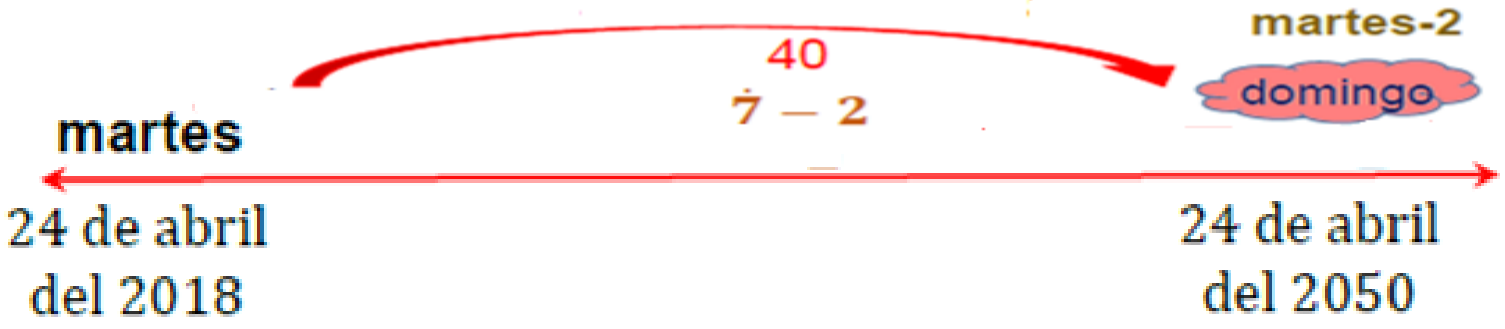

EJERCICIO N° 01

Un pastor desea transportar un lobo, una oveja y un cubo de paja al otro extremo de un río. Para ello dispone de un bote donde sólo caben él y una de las otras tres cosas. ¿Cuántos viajes como mínimo tendrá que realizar el pastor para lograr cruzar el río sin que el lobo se coma a la oveja ni que la oveja se coma el cubo de paja?

a) 7 b) 9 c) 8

d) 6 e) 5

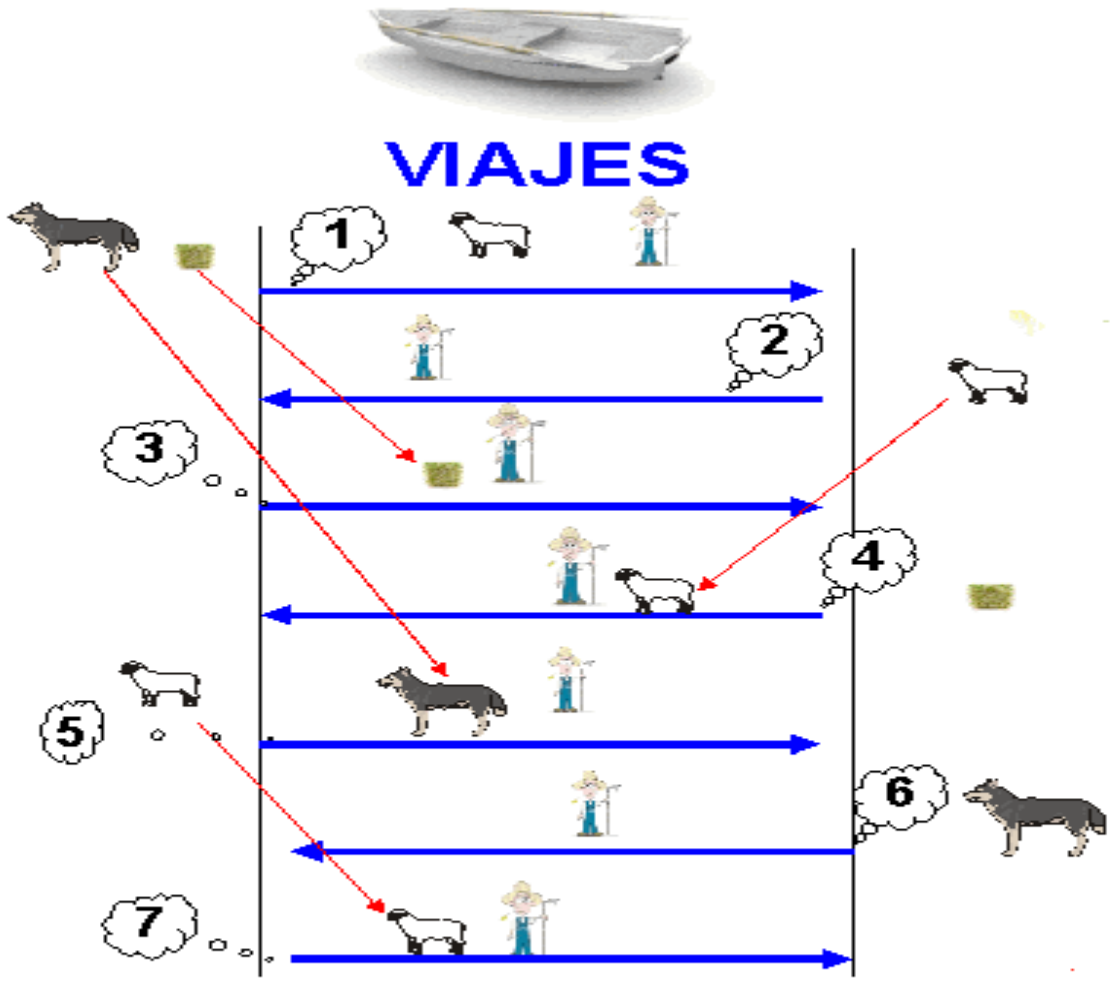

Por lo tanto , se realizan 7 viajes como mínimo

RPTA: "A"

EJERCICIO N° 02

Cinco varones y tres mujeres están juntos en la orilla de un río y tienen que cruzar en una canoa que puede soportar un peso de 90 kg como máximo. Si cada varón pesa 60 kg y cada mujer pesa 45 kg, ¿cuál es el mínimo número de viajes que la canoa tiene que hacer para que todos pasen a la otra orilla?

A) 23 B) 21 C) 25 D) 22 E) 24

Para pasar un hombre: 4 viajes

1º viaje: 5V, 1M $\xrightarrow{2M}$

2º viaje: 5V, 1M $\xleftarrow{1M}$ 1M

3º viaje: 5V, 2M $\xrightarrow{1V}$ 1M

4º viaje: 4V, 3M $\xleftarrow{1M}$ 1V

Para pasar los 5 varones: 5 x 4 = 20 viajes
Para pasar las 3 mujeres: 3 viajes

1º viaje: 1M $\xrightarrow{2M}$ 5V

2º viaje: 1M $\xleftarrow{1M}$ 5V, 1M

3º viaje: $\xrightarrow{2M}$ 5V, 3M

Por tanto: Total de viajes = 20 + 3 = 23

EJERCICIO N° 03

Una familia conformada por un padre, una madre, sus tres trillizos y un perro, tienen que cruzar un río con un bote que solo puede soportar 90 kg. Si el peso del padre, la madre y cada uno de los trillizos es 90, 50 y 30 kg respectivamente, además la mascota pesa 10 kg. ¿Cuántos viajes deben realizar, como mínimo, para lograr su objetivo, sabiendo que todos saben remar?

a) 9 b) 5 c) 13

d) 7 e) 11

Para garantizar que se realice la menor cantidad de viajes, en cada uno de estos que sea para pasar a la otra parte del río haremos que vaya la menor cantidad de personas (los trillizos) y alguien siempre debe regresar el bote. Grafiquemos los viajes a realizar:

1er viaje: Cruzarán los tres trillizos que hacen un peso total de **90kg**.

2do viaje: Un trillizo regresará con el bote mientras que los otros dos se quedaron esperando

3er viaje: La madre con el perro que hacen un total de **60 kg** cruzarán en el bote, se quedan el padre y el trillizo que volvió.

4to viaje: Otro de los trillizos regresará con el bote para que el padre cruce.



5to viaje: Ahora cruzará el padre solo porque tiene **90 kg** de peso y un trillizo traerá el bote.

6to viaje: El tercer trillizo vuelve con el bote.

7mo viaje: Finalmente cruzarán los tres trillizos (con **90 kg** en total) y todos ya se encontrarán al otro lado del río.



$\Rightarrow$ **Se realizarán 7 viajes en total**

RPTA : "D"

MOMENTO DE PRACTICAR

PROBLEMAS Y RESOLUCIÓN

PROBLEMA N° 01

En una bolsa oscura hay 7 caramelos de limón, 5 de naranja, 9 de fresa y 10 de menta. Halle en cada caso, el menor número de caramelos a extraer para tener la certeza de conseguir:

I) al menos un caramelo de cada sabor

II) siete caramelos de un sabor

De como resultado la suma de ambos valores

a) 50 b) 51 c) 47 d) 48 e) 49

SOLUCION

I $T = 10M + 9F + 7L + 1N = 27$

II $T = 5N + 6L + 6F + 6M + 1 = 24$

Suma de valores = 51

PROBLEMA N° 02

En una caja hay 18 pares de guantes de color marrón y 13 pares de color negro. ¿Cuántos guantes se deben sacar como mínimo para conseguir necesariamente un par de guantes del mismo color?

a) 1 b) 2 c) 3 d) 4 e) 5

SOLUCION

$$T = 1M + 1N + 1 = 3$$

PROBLEMA N° 03

Se sabe que el martes del miércoles es el ayer del mañana del día que antecede al viernes. ¿Qué día de la semana será el viernes del ayer del domingo? Considere que el ayer del jueves es el lunes del martes.

A) Lunes
B) domingo
C) martes
D) jueves
E) miércoles

SOLUCION

I El martes del miercoles = -1 +1 -1 al viernes

El martes del miercoles = Jueves

II El lunes del martes = -1 del jueves

El lunes del martes = Miercoles

Piden

El viernes del ayer del domingo

El viernes del sabado

El viernes del sabado = Domingo

PROBLEMA N° 04

¿Cuál es el día que está inmediatamente después del día posterior al siguiente día que subsigue al que está antes del día que precede al inmediatamente después del pasado mañana de lunes?

A) Lunes B) miércoles
C) viernes
D) sábado D) domingo

SOLUCION

¿ +1 +1 +1 +2 -1 -1 +1 +2 del lunes?

¿ + 6 del lunes ?

Domingo

PROBLEMA N° 05

En una reunión se encuentran 2 esposos, 2 padres, 2 madres, 3 nietos, 1 suegro, 1 suegra, 1 yerno, 3 hijas, 1 hermano, 2 hermanas, 1 abuelo y 1 abuela. ¿Cuál es la mínima cantidad de personas presentes?

A) 4 B) 5 C) 6
D) 7 E) 8

SOLUCION

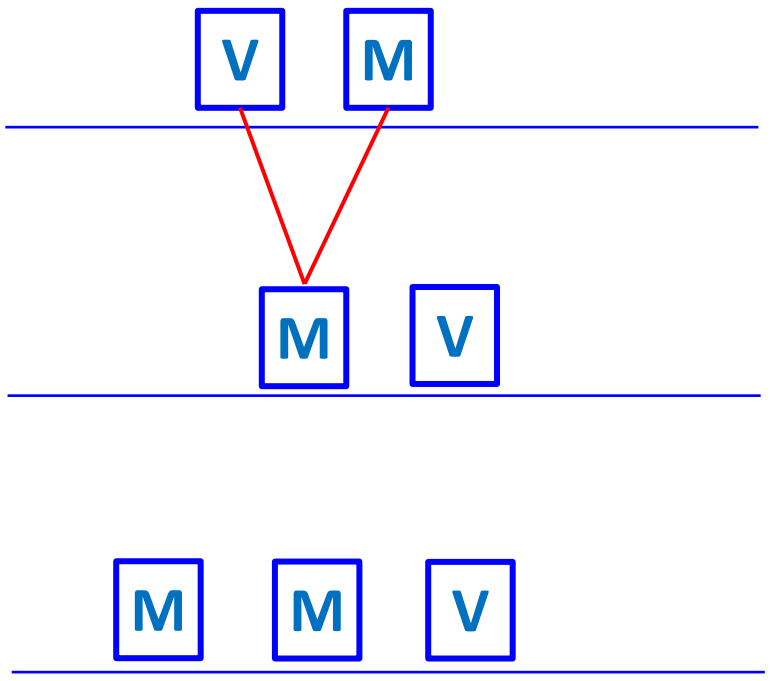

PROBLEMA N° 06

En una reunión dos padres dos madres, un suegro y una suegra, dos hijos una hija , una nuera un esposo y una esposa, dos nietos ¿Cuántas personas como mínimo conforman la familia?

a) 8 b) 7 c) 9 d) 10 e) 6

SOLUCION

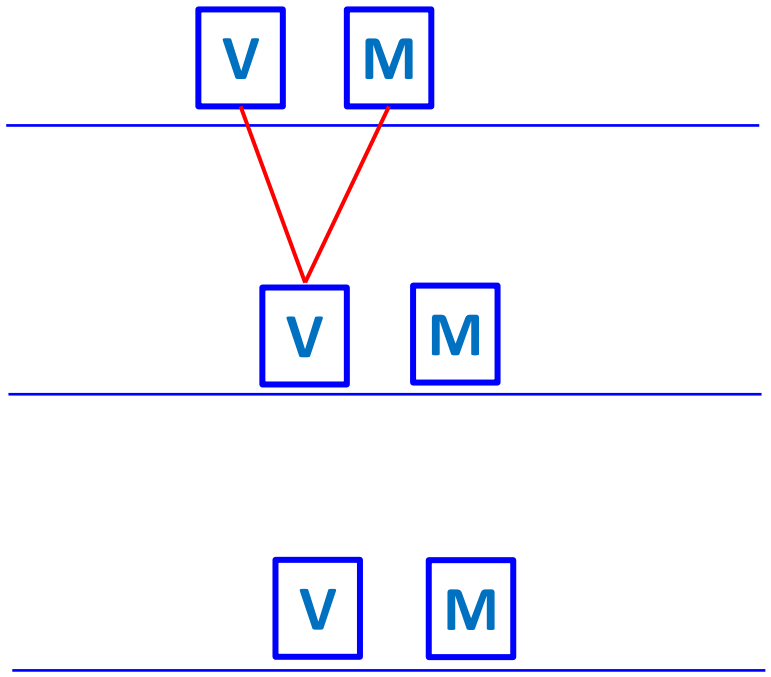

PROBLEMA N° 07

Si la suma de las fechas de todos los viernes de un determinado mes es igual a 80, entonces, ¿qué día cae el 15 de dicho mes?

A) miércoles
B) jueves
C) viernes
D) martes
E) lunes

SOLUCION

Viernes

X

X + 7

X + 14

X + 21

X + 28

$5X + 70 = 80$

$X = 2$

PROBLEMA N° 08

César Abraham Vallejo Mendoza nació el 16 de marzo de 1892 en Santiago de Chuco (La Libertad) y falleció el 15 de abril de 1938 en París. Es considerado el más grande poeta del siglo XX en todos los idiomas. ¿Qué día de la semana nació el poeta universal Cesar Vallejo?

A) miércoles
B) martes
C) jueves
D) lunes
E) viernes

PROBLEMA N° 09

Se tienen 148 monedas de igual apariencia y peso, a excepción de una de ellas que pesa menos. ¿Cuántas pesadas se deberán realizar como mínimo en una balanza de dos platillos para obtener la esfera de menor peso?

A) 1 B) 2 C) 3 D) 4
E) 5

PROBLEMA N° 10

Pepe dispone de pesas de 1, 2, 4, 8,16, etc. kg cada una. Si él desea equilibrar un peso de 341 kg utilizando el mínimo número de pesas posibles, ¿cuál o cuáles de las siguientes afirmaciones son verdaderas?

I. Pepe debe utilizar 4 pesas en total.

II. La pesa de 4 kg es parte de la solución.

III. La pesa de 8 kg es parte de la solución.

a) Sólo I
b) Sólo II
c) I y II
d) II y III
e) Todas

CLAVES

11	12	13	14	15	16	17	18	19	20
C	D	E	A	D	D	D	E	E	B

FIN DE LA SESIÓN

PRACTICA Y APRENDERÁS